Activité « mesurer / tracer des segments »

Exercice 1

A l'aide de la bande unité, mesurer les segments suivants :

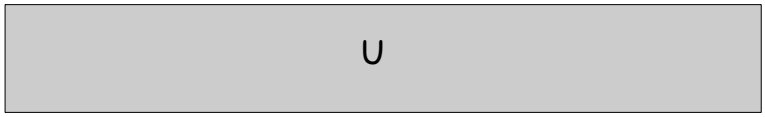



Texte

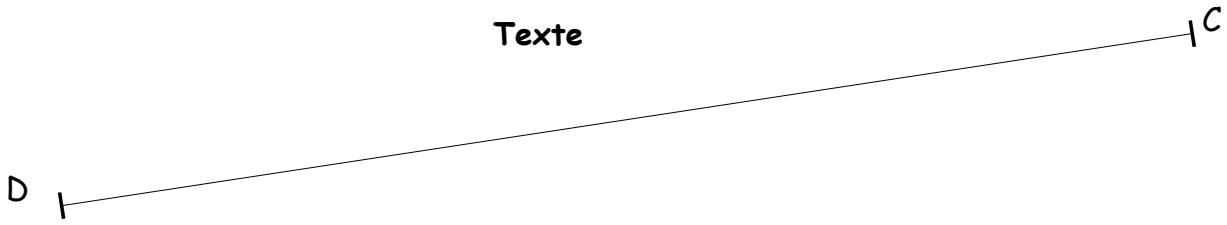



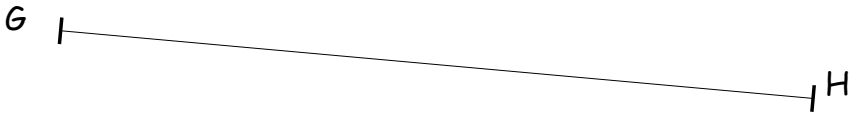

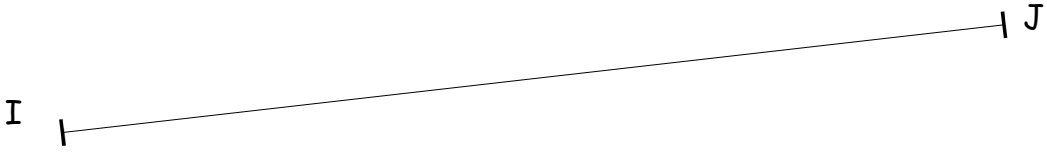

Exercice 2

En utilisant la bande unité, tracer les segments dont la longueur est donnée.



KL = 1 u + $\frac{1}{2}$ u ; MN = 2 u + $\frac{1}{4}$ u ; OP = $\frac{1}{2}$ u ;

QR = $\frac{3}{4}$ u ; ST = 1 u + $\frac{1}{4}$ u .

exo 1



exo 2

unité	unité
unité	unité
unité	unité
unité	unité
unité	unité
unité	unité
unité	unité
unité	unité
unité	unité
unité	unité