5e - Nommer un angle — Fiche AP12

EXERCICE 1.1 →

- Marquer en **bleu** l'angle $\widehat{CDA}$.
- Marquer en **rouge** l'angle $\widehat{BAC}$.
- Marquer en **vert** l'angle $\widehat{DBA}$.
- Marquer en **noir** l'angle $\widehat{CAD}$.

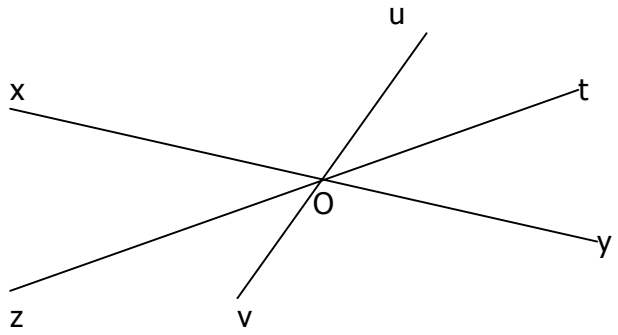

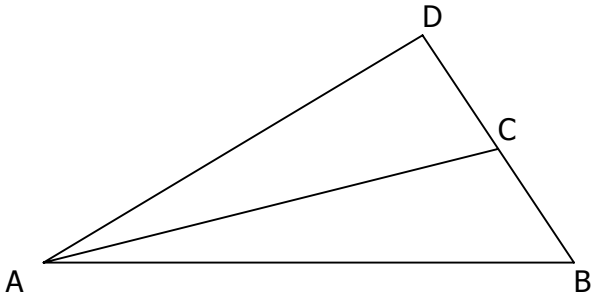

← EXERCICE 1.2

- Marquer en **bleu** l'angle $\widehat{xOu}$.
- Marquer en **rouge** l' angle $\widehat{uOt}$.
- Marquer en **vert** l'angle $\widehat{yOz}$.
- Marquer en **noir** l'angle $\widehat{xOt}$.

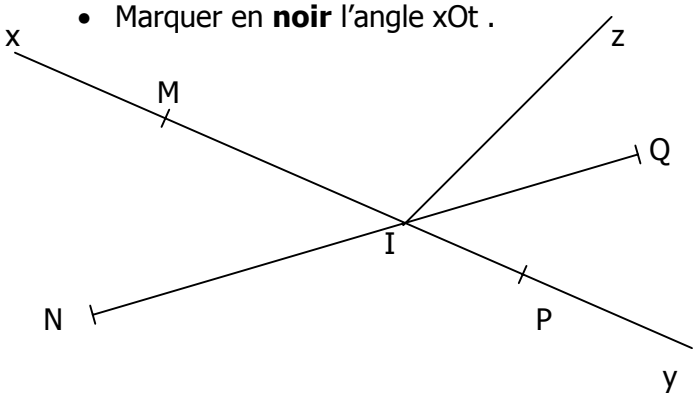

EXERCICE 1.3 →

- Marquer en **bleu** l'angle $\widehat{MIz}$.
- Marquer en **rouge** l'angle $\widehat{QIy}$.
- Marquer en **vert** l'angle $\widehat{zIN}$.
- Marquer en **noir** l'angle $\widehat{xPQ}$.

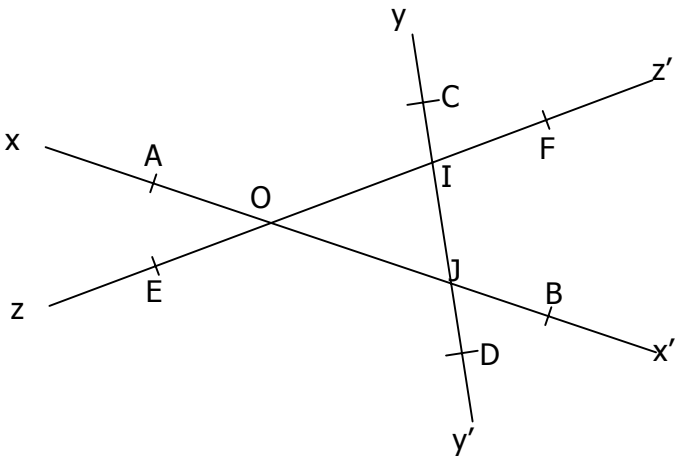

← EXERCICE 1.4

Relier par un trait les noms qui désignent le même angle sur la figure.

$\widehat{xOz}$	•	•	$\widehat{xOz'}$
$\widehat{yIz}$	•	•	$\widehat{EIJ}$
$\widehat{AOF}$	•	•	$\widehat{OIC}$
$\widehat{xJD}$	•	•	$\widehat{AOE}$
$\widehat{OID}$	•	•	$\widehat{OJy'}$

EXERCICE 1.5

Donner le nom des angles marqués :

